Задание:

- Повторить теорию;
- Выполнить практическую работу;
- Оформить отчёт (должен содержать тему, цель, вариант (выбрать по списку), выполненное задание, в верхнем колонтитуле группа и фамилия студента);
- По вопросам обращаться 072-1098278 или hvastov@rambler.ru
- Фотоотчёт работы прислать в течении 3 дней со дня получения задания на hvastov@rambler.ru
- Выполненную работу предоставить по окончании дистанционного обучения.

№ п/п	ФИО студента	Вариант
1.	Верхулевский Кирилл Александрович	1
2.	Елисеева Ирина Васильевна	2
3.	Емельянов Александр Николаевич	3
4.	Зенин Даниил Юрьевич	4
5.	Калашник Лилия Анатольевна	5
6.	Касьянов Владислав Сергеевич	6
7.	Коваленко Никита Андреевич	7
8.	Луганская Ирина Александровна	8
9.	Макаренко Артем Юрьевич	9
10.	Мельников Вадим Артурович	10
11.	Паламарчук Иван Викторович	11
12.	Песковой Дмитрий Андреевич	12

Практическая работа №6

Тема: Расчёт соединения конденсаторов

Цель: Изучить методы соединения конденсаторов в электрических цепях постоянного тока. Рассчитать эквивалентную емкость, напряжение и заряд батареи конденсаторов при смешанном соединении конденсаторов.

Ход работы:

1. Изучить свойства конденсаторов, способы соединения, формулы для определения основных величин.
2. Рассчитать эквивалентную емкость, напряжение и заряд батареи конденсаторов при смешанном соединении конденсаторов по заданному варианту.
3. Оформить отчет.

Теоретическая часть:

Сообщение электрического заряда проводнику называется электризацией. Чем больший заряд принял проводник, тем больше его электризация, или, иначе говоря, тем выше его электрический потенциал.

Между количеством электричества и потенциалом данного уединенного проводника существует линейная зависимость: отношение заряда проводника к его потенциалу есть величина постоянная:

$$\frac{q}{\varphi} = C.$$

Для какого-либо другого проводника отношение заряда к потенциалу есть также величина постоянная, но отличная от этого отношения для первого проводника.

Одной из причин, влияющих на эту разницу, являются размеры самого проводника. Один и тот же заряд, сообщенный различным проводникам, может создать различные потенциалы. Чтобы повысить потенциал какого-либо проводника на одну единицу потенциала, необходим определенный заряд.

Свойство проводящих тел накапливать и удерживать электрический заряд, измеряемое отношением заряда уединенного проводника к его потенциалу, называется электрической емкостью, или просто емкостью, и обозначается буквой С.

$$C = \frac{q}{\varphi}.$$

Приведенная формула позволяет установить единицу емкости.
Практически заряд измеряется в кулонах, потенциал в вольтах, а емкость в фарадах:

$$1 \text{ фарада} = \frac{1 \text{ кулон}}{1 \text{ вольт}}.$$

Емкостью в 1 фараду обладает проводник, которому сообщают заряд в 1 кулон и при этом потенциал проводника увеличивается на 1 вольт.

Единица емкости — фарада (обозначается ф или F) очень велика. Поэтому чаще пользуются более мелкими единицами — микрофарадой (мкф или μF), составляющей миллионную часть фарады:

$$1 \text{ мкф} = 10^{-6} \text{ ф},$$

и пикофарадой (пф), составляющей миллионную часть микрофарады:

$$1 \text{ пф} = 10^{-6} \text{ мкф} = 10^{-12} \text{ ф}.$$

Найдем выражение практической единицы — фарады в абсолютных единицах:

$$\frac{1 \text{ кулон}}{1 \text{ вольт}} = \frac{3 \cdot 10^9}{1/300} = 9 \cdot 10^{11} \text{ абс. ед. емкости (сантиметров)}.$$

Устройство, предназначенное для накопления электрических зарядов, называется электрическим конденсатором. Конденсатор состоит из двух металлических пластин (обкладок), разделенных между собой слоем диэлектрика. Чтобы зарядить конденсатор, нужно его обкладки соединить с полюсами электрической машины. Разноименные заряды, скопившиеся на обкладках конденсатора, связаны между собой электрическим полем. Близко расположенные пластины конденсатора, влияя одна на другою, позволяют получить на обкладках большой электрический заряд при относительно невысокой разности потенциалов между обкладками. Емкость конденсатора есть отношение заряда конденсатора к разности потенциалов между его обкладками:

$$C = \frac{Q}{U} \text{ или } Q = CU.$$

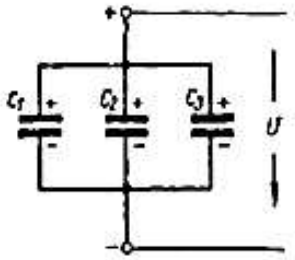

Параллельное соединение конденсаторов

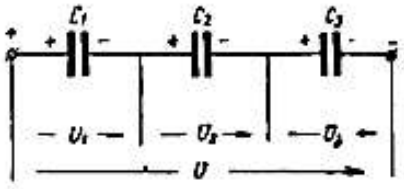

Последовательное соединение конденсаторов

При параллельном соединении конденсаторов напряжение на обкладках каждого конденсатора одно и то же. Поэтому можно написать:

$$U_1 = U_2 = U_3 = U.$$

Количество электричества (заряд) каждого конденсатора:

$$q_1 = C_1U;\ q_2 = C_2U;\ q_3 = C_3U.$$

Общий заряд батареи конденсаторов:

$$q = q_1 + q_2 + q_3;$$

$$q = C_1U + C_2U + C_3U = U(C_1 + C_2 + C_3).$$

Обозначая емкость батареи конденсаторов через C, получаем:

$$q = CU,$$

тогда

$$CU = U(C_1 + C_2 + C_3)$$

или окончательно

$$C = C_1 + C_2 + C_3.$$

Следовательно, при параллельном соединении конденсаторов общая емкость равна сумме емкостей отдельных конденсаторов. При параллельном соединении каждый конденсатор окажется включенным на полное напряжение сети.

Рассмотрим последовательное соединение конденсаторов:

$$q_1 = q_2 = q_3 = q.$$

Напряжение, приложенное ко всей батарее конденсаторов, равно сумме напряжений на обкладках каждого конденсатора:

$$U = U_1 + U_2 + U_3.$$

Так как

$$U_1 = \frac{q}{C_1}, \quad U_2 = \frac{q}{C_2}, \quad U_3 = \frac{q}{C_3},$$

для всей батареи

$$U = \frac{q}{C}.$$

Теперь можно написать

$$\frac{q}{C} = \frac{q}{C_1} + \frac{q}{C_2} + \frac{q}{C_3}$$

или, сокращая на q, получим окончательно:

$$\frac{1}{C} = \frac{1}{C_1} + \frac{1}{C_2} + \frac{1}{C_3}.$$

Практическое задание:

Определить заряд, напряжение, энергию электрического поля каждого конденсатора, эквивалентную емкость цепи.

Номер варианта	Номер рисунка схемы	Задаваемые величины						
		U, кВ	C1, мкФ	C2, мкФ	C3, мкФ	C4, мкФ	C5, мкФ	C6, мкФ
1	2	3	4	5	6	7	8	9
00	2.1	1	10	20	30	40	50	60
01	2.2	10	20	30	40	50	60	10
02	2.3	9	30	40	50	60	10	20
03	2.4	8	40	50	60	10	20	30
04	2.5	7	50	60	10	20	30	40
05	2.1	2	60	10	20	30	40	50
06	2.2	9	10	20	30	40	50	60
07	2.3	8	20	30	40	50	60	10
08	2.4	7	30	40	50	60	10	20
09	2.5	6	40	50	60	10	20	30
10	2.1	3	50	60	10	20	30	40
11	2.2	8	60	10	20	30	40	50
12	2.3	7	10	20	30	40	50	60
13	2.4	6	20	30	40	50	60	10
14	2.5	5	30	40	50	60	10	20
15	2.1	4	40	50	60	10	20	30
16	2.2	7	50	60	10	20	30	40
17	2.3	6	60	10	20	30	40	50
18	2.4	5	10	20	30	40	50	60
19	2.5	4	20	30	40	50	60	10
20	2.1	5	30	40	50	60	10	20

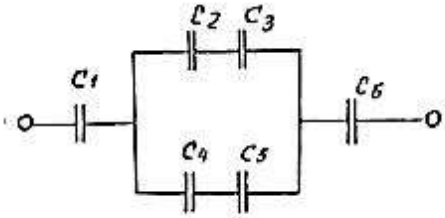

Рис. 2.3

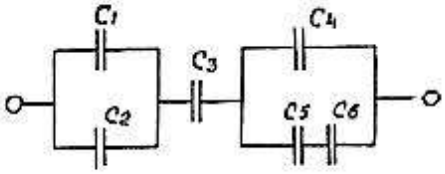

Рис. 2.4

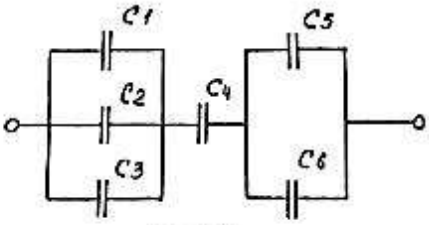

Рис. 2.5

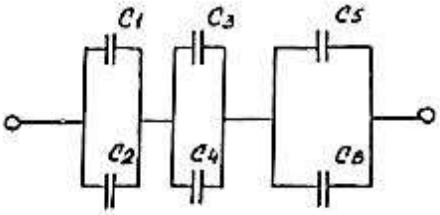

Рис. 2.1

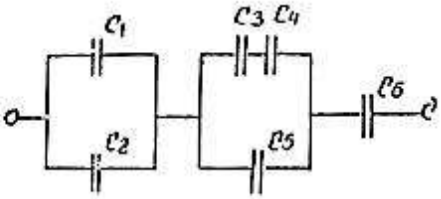

Рис. 2.2

Содержание отчета.

1. Тема и цель работы.
2. Вариант.
3. Схему с кратким условием.
4. Решение.
5. Ответы на вопросы
6. Вывод по работе.

Контрольные вопросы.

1. Какое соединение конденсаторов называют последовательным?
2. Какое соединение конденсаторов называют параллельным?
3. Какое соединение конденсаторов называют смешанным?
4. В каких случаях применяют последовательное, а в каких параллельное соединение конденсаторов?
5. Чему равно $C_{экв}$ при последовательном и параллельном соединении конденсаторов?
6. Чему равен заряд Q при различных соединениях конденсаторов?